Les triangles

Identifier et tracer des triangles

Date :

1 Observe ces triangles et complète le tableau.

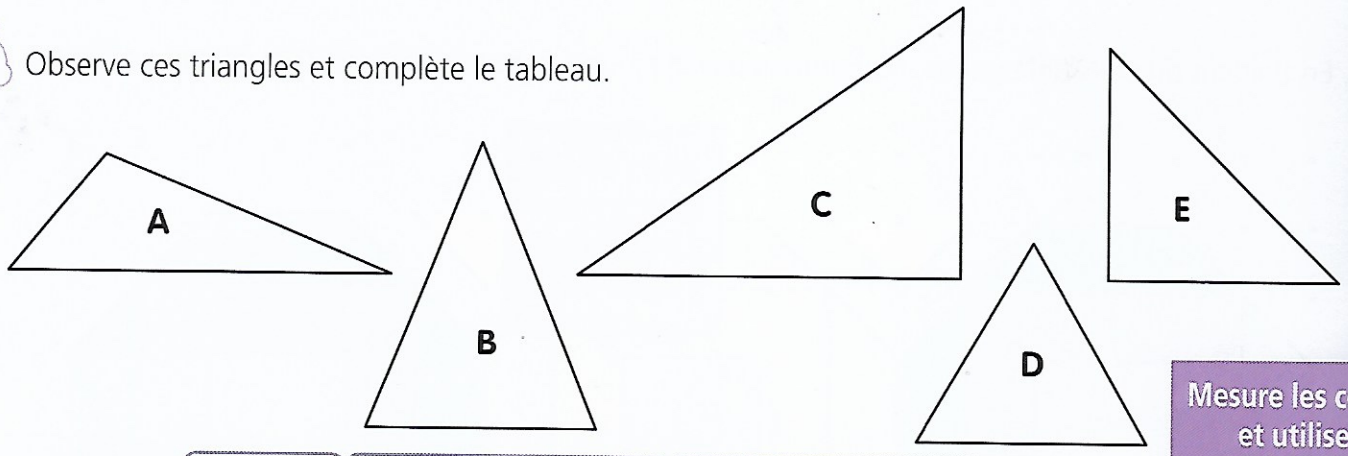

Triangles	Nombre de côtés de même mesure	Y a-t-il des angles droits ?		Nom du triangle
A	0	oui	non	triangle quelconque
B	2	oui	non	triangle isocèle
C	0	oui	non	triangle rectangle
D	3	oui	non	triangle équilatéral
E	2	oui	non	triangle rectangle

Mesure les côtés et utilise ton équerre pour les angles droits !



2 Trace un triangle quelconque DEF.

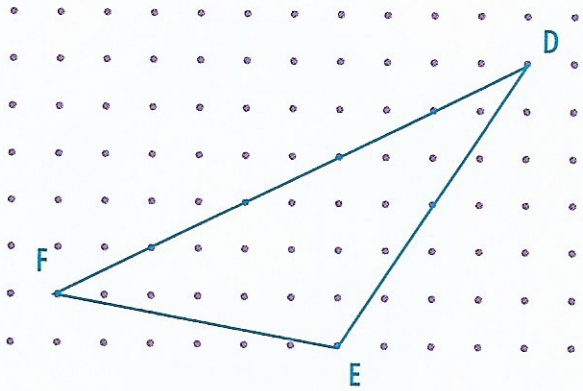

3 Trace un triangle rectangle LMN.

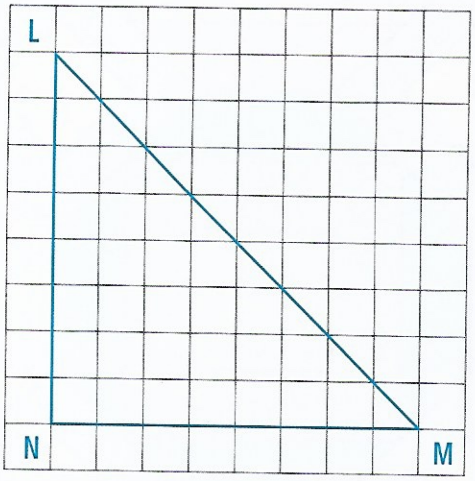

4 Trace un triangle équilatéral GHI.

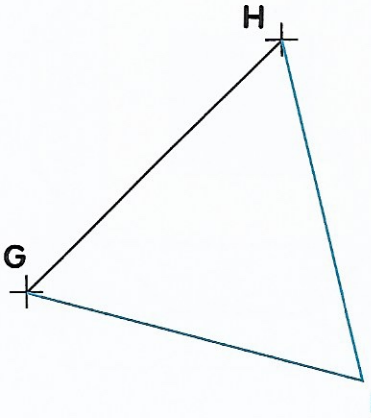


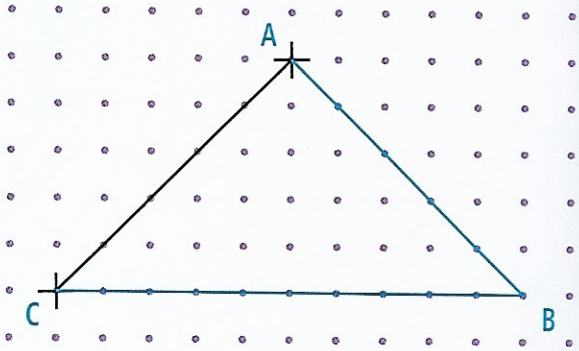
5 Trace un triangle isocèle ABC.