Analyse de problèmes
Représentation de l'énoncé

① Quentin veut acheter un cadeau pour son papa et un cadeau pour sa maman. Pour son papa, il a le choix entre une paire de chaussettes à 6 €, un livre à 11 € et une écharpe à 13 €. Pour sa maman, il a le choix entre une ceinture à 7 € et un collier à 12 €.

1. Quel est le nombre de choix possibles ?

2. Combien Quentin peut-il dépenser pour chaque choix ?



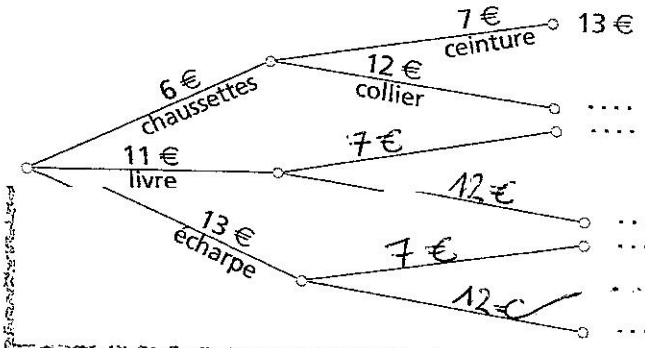

- Reproduis le schéma et effectue les calculs pour le compléter.
- Rédige les réponses.

③ En additionnant l'âge du père et celui du fils, on trouve 60 ans. L'âge du père est le double de l'âge du fils.

Trouve l'âge de chacun d'eux.

- Reproduis et complète le schéma, puis rédige la réponse.

Âge du .... ⌊_____⌋_____⌋
Âge du .... ⌊_____⌋ } 60 ans



⑧ Trois villes sont situées sur la même route dans l'ordre suivant : Belfort, Mulhouse et Colmar. La distance Belfort-Colmar est de 82 km. Elle est le double de la distance Mulhouse-Colmar.

Quelle est la distance Belfort-Mulhouse ?

- Reproduis et complète le schéma.
- Rédige la réponse.