Numération CE2 15 06

1. Sur cette ligne, place les nombres 25,30 et 44.

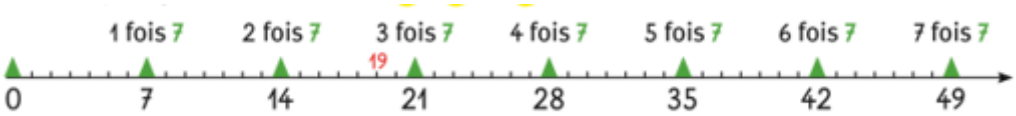

Encadre ces nombres par les multiples de 7les plus proches et écris les égalités

14 < 19 < 21 …….< 25 <…… ……< 30 <…… ……< 44 <……

7x2 < 19 < 7x2 …… …… ……

19 = (7x2) + 5 …… …… ……

2. Encadre les nombres par les multiples de la table de 5 les plus proches

15 < 17 <20 …….< 8 <…… …….< 31 <…… …….< 49 <……

…….< 12 <…… …….< 27 <…… …….< 43 <…… …….< 38 <……

3. Dans 17 combien de fois 5 ? Utilise la table de 5 pour compléter les égalités

17 = (5x3) +2

12 = (5x …..) + …….

23 = (5x …..) + …….

27= (5x …..) + …….

31 = (5x …..) + …….

43 = (5x …..) + …….

49 = (5x …..) + …….

38 = (5x …..) + …….

4. Pour atteindre le sable la tortue doit avancer sur des cases qui contiennent des multiples de 6. Elle avance toujours case par case dans une de ces trois directions :

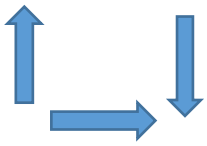

Colorie son trajet.

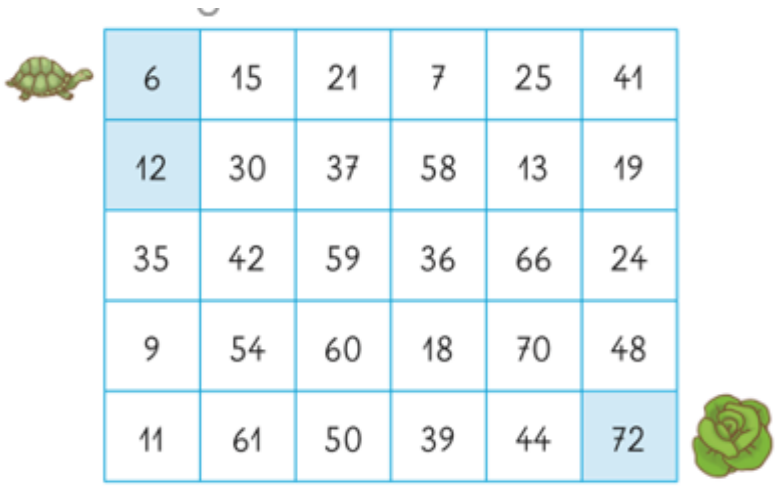

6	15	21	7	25	41
12	30	37	58	13	19
35	42	59	36	66	24
9	54	60	18	70	48
11	61	50	39	44	72