Nom : …….. Date : ……/……/ 20….

Evaluation : La symétrie d'une figure

Identifier les axes de symétrie d'une figure.

1 Coche les cases quand les affirmations sont exactes.

☐ Un carré possède 4 axes de symétrie.

☐ Un rectangle a 4 axes de symétrie.

☐ Un rectangle a 2 axes de symétrie.

2 Colorie les figures qui ont au moins un axe de symétrie.

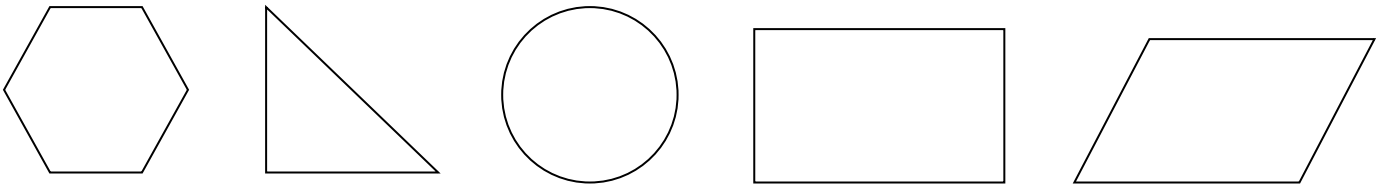

Reconnaître des figures symétriques.

3 Entoure les figures qui sont symétriques par rapport à l'axe.

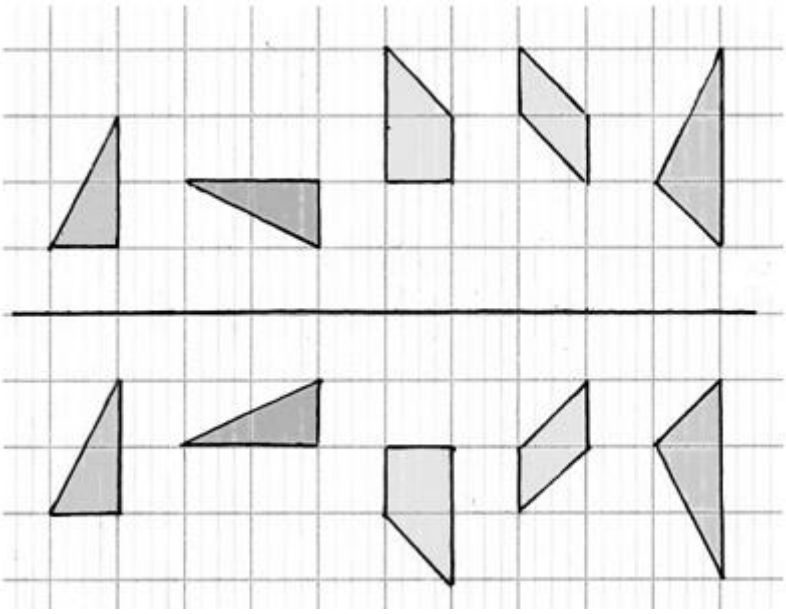

Tracer une figure symétrique par rapport à un axe.
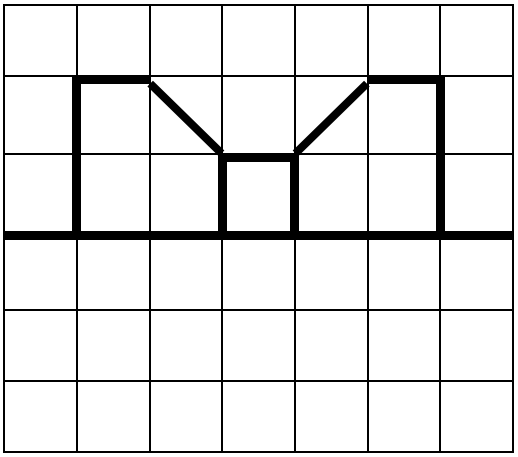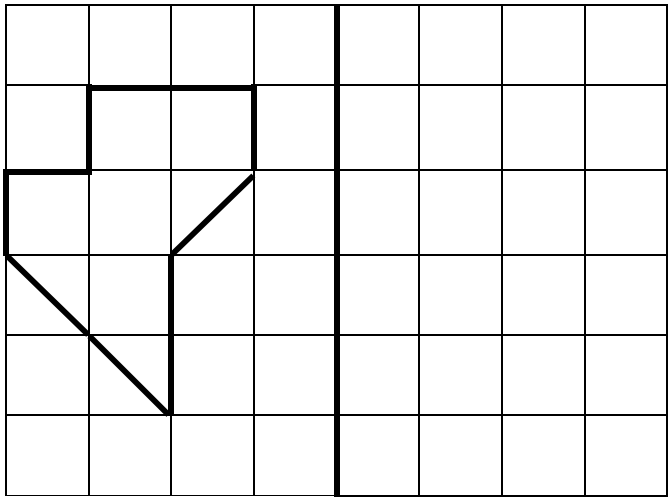
4 <u>En t'aidant du quadrillage reproduis ces dessins pour qu'ils soient symétriques par rapport à l'axe.</u>