Correction des exercices du vendredi 12 juin

Anglais

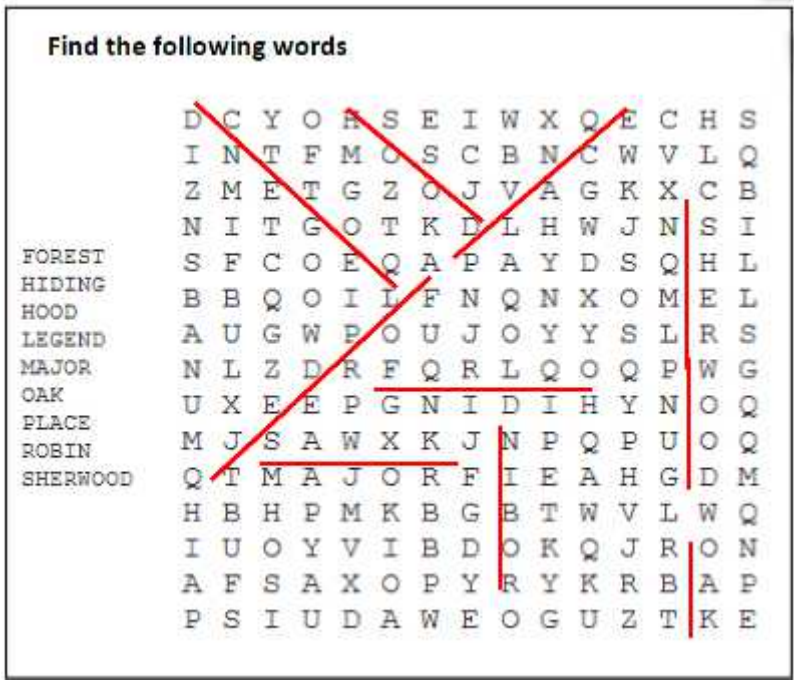

Exercices d'orthographe

<u>Exercice 1 Est-ce vrai ou faux ? Entoure la bonne réponse.</u>

1. Les mots « quel / quelle / quels / quelles » sont des noms. *Vrai ou faux ?*
2. Les mots « qu'elle » ou « qu'elles » sont composés du mot « que » et du pronom personnel « elle » ou « elles ». *Vrai ou faux ?*
3. Le mot « quel » est féminin pluriel. *Vrai ou faux ?*
4. Les mots « quel / quelle / quels / quelles » doivent être accordés en genre et en nombre avec les noms qui les suivent. *Vrai ou faux ?*
5. Les mots « qu'elle » ou « qu'elles » peuvent être remplacés par « qu'il » ou « qu'ils ». *Vrai ou faux ?*
6. Les mots « quel / quelle / quels / quelles » peuvent être des adjectifs interrogatifs ou exclamatifs. *Vrai ou faux ?*

<u>Exercice 2 Complète par « quel / quelle / quels / quelles /qu'elle / qu'elles ».</u>

- Quel temps magnifique !
- Mon frère se demande dans quelle mesure il sera prêt pour son examen.
- La police doit enquêter pour dire quelles sont les circonstances de l'accident.
- Il a fallu plusieurs mois pour qu'elle réussisse cet exercice.

- Dans quel pétrin tu t’es encore mis!
- Ils réfléchissent pour savoir quelle est la solution.
- Il était temps qu'elles en finissent avec ces histoires.
- Heureusement qu'elle avait tout prévu !
- Quel âge as-tu ?

Problèmes

① **Ce tableau donne le nombre d'élèves qui ont mangé à la cantine chaque jour de la semaine:**

Jour	CP	CE1	CE2	CM1	CM2	Total
Lundi	12	16	18	19	17	**82**
Mardi	13	16	19	18	20	**86**
Jeudi	12	17	17	16	18	**80**
Vendredi	12	17	15	15	16	**75**

Combien d'élèves ont mangé à la cantine jeudi? ...80 élèves ont mangé à la cantine jeudi.....

Quel est le jour de la semaine où les élèves de CM2 ont été les plus nombreux à la cantine? .....

C'est le mardi que les élèves de CM2 ont été les plus nombreux à la cantine.

Quel est le jour de la semaine où la cantine a accueilli le plus d'élèves? .....C'est le mardi.

Quel est le jour de la semaine où la cantine a accueilli le moins d'élèves? ...C'est le vendredi.

② **Le tableau indique le nombre d'élèves qui pratiquent un sport en club dans les classes de CE2, CM1 et CM2.**

Sport	CE2	CM1	CM2	Total
Natation	3	4	3	**10**
Football	8	10	11	**29**
Basket	2	4	5	**11**
Judo	5	6	7	**18**

Quel est le nombre total d'élèves qui pratiquent le basket? .....11 élèves pratiquent le basket.....

Quel est le sport pratiqué par 5 élèves de CE2? ....Le judo est le sport pratiqué par 5 élèves de CE2....

③ **Complète le tableau avec les informations.**

	Mercredi	Samedi
Bibliothèque	.....	.....Sophia.....
Musique	.....Julien.....	.....
Dessin	.....Eva.....	.....

Julien va à la musique le mercredi.

Sophia va à la bibliothèque le samedi

Eva va au dessin le mercredi.

① Le gérant d'un cinéma a dressé un graphique indiquant le nombre de spectateurs durant une semaine. Observe et complète les phrases.

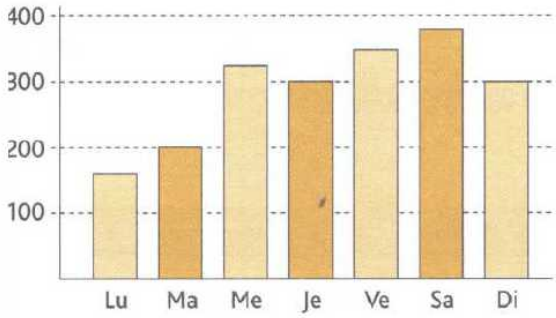

Le nombre de spectateurs qui ont assisté à la séance du mardi est de ....200..... .

Le jour où les spectateurs ont été les plus nombreux est le ...samedi..... .

Le jour où les spectateurs ont été les moins nombreux est le .....lundi..... .

Les nombres de spectateurs ont été les mêmes le ....jeudi..... et le ...dimanche..... .

Il y a eu plus de 300 spectateurs le ..mercredi....., le ...vendredi..... et le ...samedi..... .

② Complète le tableau en t'aidant du graphique.

Sommet	Altitude	Massif
Mont Blanc	4 810 m	Alpes
Vignemale	3 298 m	Pyrénées
Puy de Sancy	1 886 m	Massif central
Crêt de la Neige	1 720 m	Jura
Grand Ballon	1 424 m	Vosges

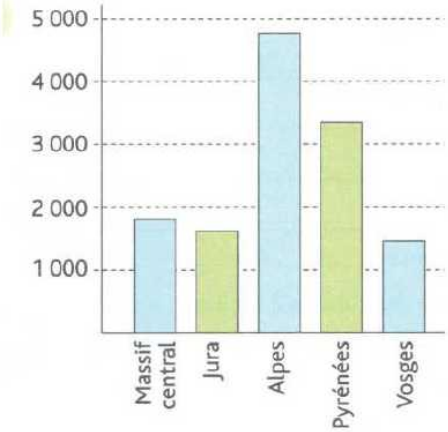

L	Ma	Me	J	V	S	D
16°	20°	21°	19°	19°	15°	18°

Températures en °

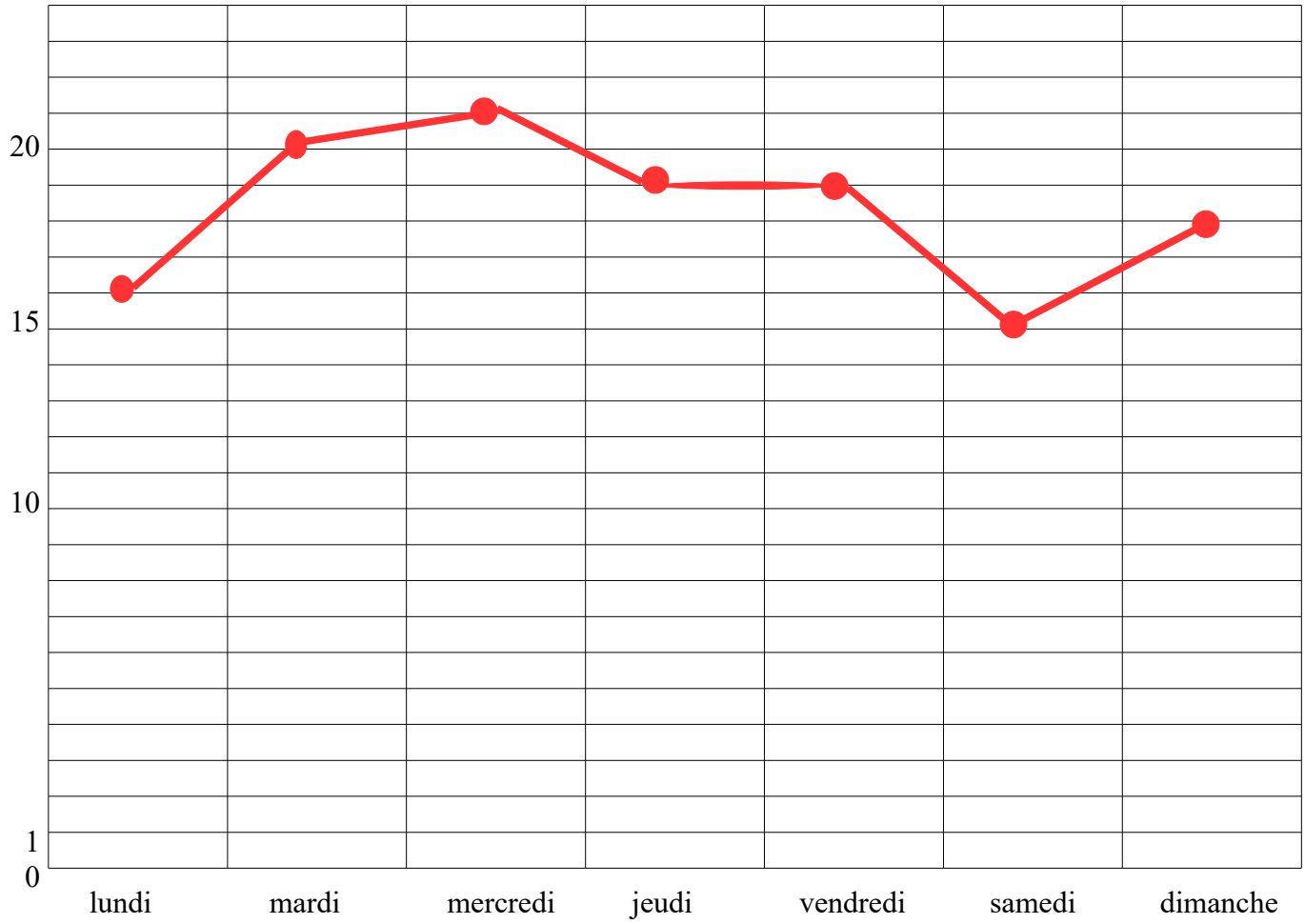

Il était possible de faire un graphique avec un axe vertical gradué de 15 à 21 degrés.

Conjugaison
Exercice 4 page 161

Nous sommes retournés en Italie.
Vous êtes restées trop longtemps au soleil.
La chanteuse est venue avec son orchestre.
Je suis tombée dans les escaliers.
Les artistes sont entrés en scène.
Tu es arrivé avec beaucoup de retard.

Exercice 5 page 161

Nous avons perdu les clés de la salle des fêtes.
Elles sont reparties aussitôt qu'elles ont entendu les premiers coups de tonnerre.
Il est passé devant nous sans même nous voir !
Ils ont roulé toute la journée et sont arrivés très tard.
La fusée a décollé à 13 h 02 et est devenue rapidement invisible.

Pour chaque verbe, je dois savoir quel auxiliaire, avoir ou être, utiliser.

Attention, le participe passé s'accorde avec le sujet lorsqu'on utilise l'auxiliaire être.

Exercice 6 page 161

Les mouettes sont perchées sur les bateaux.
Mes sœurs sont restées à la cantine.
Les jumeaux sont nés la nuit dernière.
La neige est tombée en abondance.
Le chat est rentré ce matin.

Exercice 7 page 161

Je suis entré(e) dans le musée à 14 h et je suis ressorti(e) à 18 h.
Tu es entré(e) dans le musée à 14 h et tu es ressorti(e) à 18 h.
Il, on, est entré dans le musée à 14 h et il, on, est ressorti à 18 h.
Elle est entrée dans le musée à 14 h et elle est ressortie à 18 h.
Nous sommes entré(e)s dans le musée à 14 h et nous sommes ressorti(e)s à 18 h.
Vous êtes entré(e)s dans le musée à 14 h et vous êtes ressorti(e)s à 18 h.
Ils sont entrés dans le musée à 14 h et et ils sont ressortis à 18 h.
Elles sont entrées dans le musée à 14 h et elles sont ressorties à 18 h.