REPÈRE 12DNBCOLHGECME1

Diplôme National du Brevet
Session 2012

ÉPREUVE D'HISTOIRE-GEOGRAPHIE ET ÉDUCATION CIVIQUE
Série Collège

DUREE : 2 heures COEFFICIENT : 2

L'usage de la calculatrice et de tout document est interdit.

Le sujet est composé de 10 pages :

- **Première partie : histoire et géographie, notée sur 18 points :**

  AU CHOIX :
  - **sujet N°1 : pages 2/10 à 4/10**
  - **sujet N°2 : pages 5/10 à 7/10**

- **Deuxième partie : éducation civique, notée sur 12 points :**

  - **sujet : pages 8/10 à 9/10**

- **Troisième partie : repères chronologiques et spatiaux, notée sur 6 points :**

  - **sujet : page 10/10 (à rendre avec la copie)**

Maîtrise de la langue (orthographe et expression écrite) : 4 points

<u>PREMIERE PARTIE</u> : HISTOIRE ET GEOGRAPHIE (18 POINTS)

SUJET N°1 - HISTOIRE :

LA VIE DES FRANÇAIS AU FRONT ET A L'ARRIERE
PENDANT LA PREMIERE GUERRE MONDIALE

Document 1 - Un soldat français écrit à sa mère.

6 septembre 1916,*
Mercredi soir
Ma chère mère,
Je t'envoie quelques lignes des tranchées où nous sommes depuis dimanche soir. De la boue jusqu'à la ceinture, bombardement continuel, toutes les tranchées s'effondrent c'est intenable, nous montons ce soir en 1ere ligne mais je ne sais pas comment cela va se passer, c'est épouvantable. Nous avons déjà des tués et des blessés et nous avons encore deux jours à y rester. Je donnerais cher pour être loin d'ici. Enfin espérons quand même. Adieu et une foule de baisers de ton fils qui te chérit.

Gaston

Extrait de *Paroles de Poilus, lettres et carnets du front (1914-1918)*, Jean Pierre Guéno et Yves Laplume, Flammarion, collection Librio, 1998.

*Lettre écrite par Gaston Biron, soldat appartenant au 21e bataillon de chasseurs à pied. Dans le civil, Gaston Biron était interprète. Il avait 29 ans en 1914.

Document 2 - Un atelier français de fabrication d'obus pendant la Première Guerre mondiale.

cl. Branger-Viollet, tiré de « *les collections de l'histoire* », octobre - décembre 2003.

Document 3 - Carte postale française pendant la Première Guerre mondiale

Tiré de *Lignes de vie, Des Gascons dans la Grande Guerre*, Laurent Ségalant, Orthez, Gascogne édition, 2009.

QUESTIONS - 8 POINTS

Document 1 (3 points)

1. Que nous apprend cette lettre sur les conditions de vie du poilu pendant la Première Guerre mondiale ? Justifiez.

Documents 2 et 3 (2 points)

2. Quels rôles ont les femmes durant la Première Guerre mondiale ?

Document 3 (3 points)

En décrivant la carte postale, précisez ce qui est demandé aux Français et pour quel usage.

PARAGRAPHE ARGUMENTE - 10 POINTS

A partir des informations tirées des documents et de vos connaissances personnelles, rédigez un paragraphe argumenté d'une vingtaine de lignes dans lequel vous raconterez la vie des Français au front et à l'arrière durant la Première Guerre mondiale.

PREMIERE PARTIE : HISTOIRE ET GEOGRAPHIE (18 POINTS)

SUJET N°2 - GEOGRAPHIE :

LA PUISSANCE ECONOMIQUE ET COMMERCIALE DE l'UNION EUROPEENNE

Document 1 - Quelques données sur les quatre premières puissances économiques mondiales

	PIB mondial en 2010 (en %)	Répartition de 500 premières FMN* mondiales en 2010 (en %)	Part des exportations dans le monde en 2010 (en %)	Part des importations dans le monde en 2010 (en %)	Part de la production mondiale de véhicules en 2010 (en %)
Union européenne	25,8	29,4	14,7	16,7	21,7
Etats-Unis	23,1	26,6	11,4	11,1	10
Chine	9,3	12,2	14,1	16,2	23,5
Japon	8,7	13,6	6,5	5,8	12,4

Sources diverses (Global Fortune, Commission européenne, CNUCED, OICA)

* FMN : firme multinationale

Document 2 - Le succès commercial de l'avionneur européen Airbus

Airbus a battu Boeing sur le fil dans la bataille des commandes de nouveaux avions en 2010. Une avalanche de commandes a permis à Airbus de dépasser son éternel rival américain en toute fin d'année, conservant ainsi sa place de numéro un pour la troisième année consécutive.
Airbus attribue ses performances commerciales à une forte reprise du marché dans les pays émergents et dans le segment des compagnies à bas coûts. Le chiffre de 2010 tient compte d'une commande ferme portant sur 60 A320 de Virgin America, dont Richard Branson détient une participation minoritaire, la compagnie à bas coûts basée en Californie devenant le premier client confirmé de la version A320NEO. Airbus a annoncé la semaine dernière une commande d'ampleur potentiellement historique placée par la compagnie aérienne indienne IndiGo. Le total des nouvelles commandes d'Airbus ressort à 574 avions, pesant un total de 74 milliards de dollars contre 530 pour Boeing, ce qui donne au constructeur européen une part de marché de 52%. Pour la huitième année de suite, Airbus a livré plus d'avions que Boeing en 2010, franchissant en outre la barre des 500 unités pour la première fois de son histoire.

D'après *www.lefigaro.fr* ,consulté le 17 janvier 2011

Document 3 - L'Union européenne en 2011

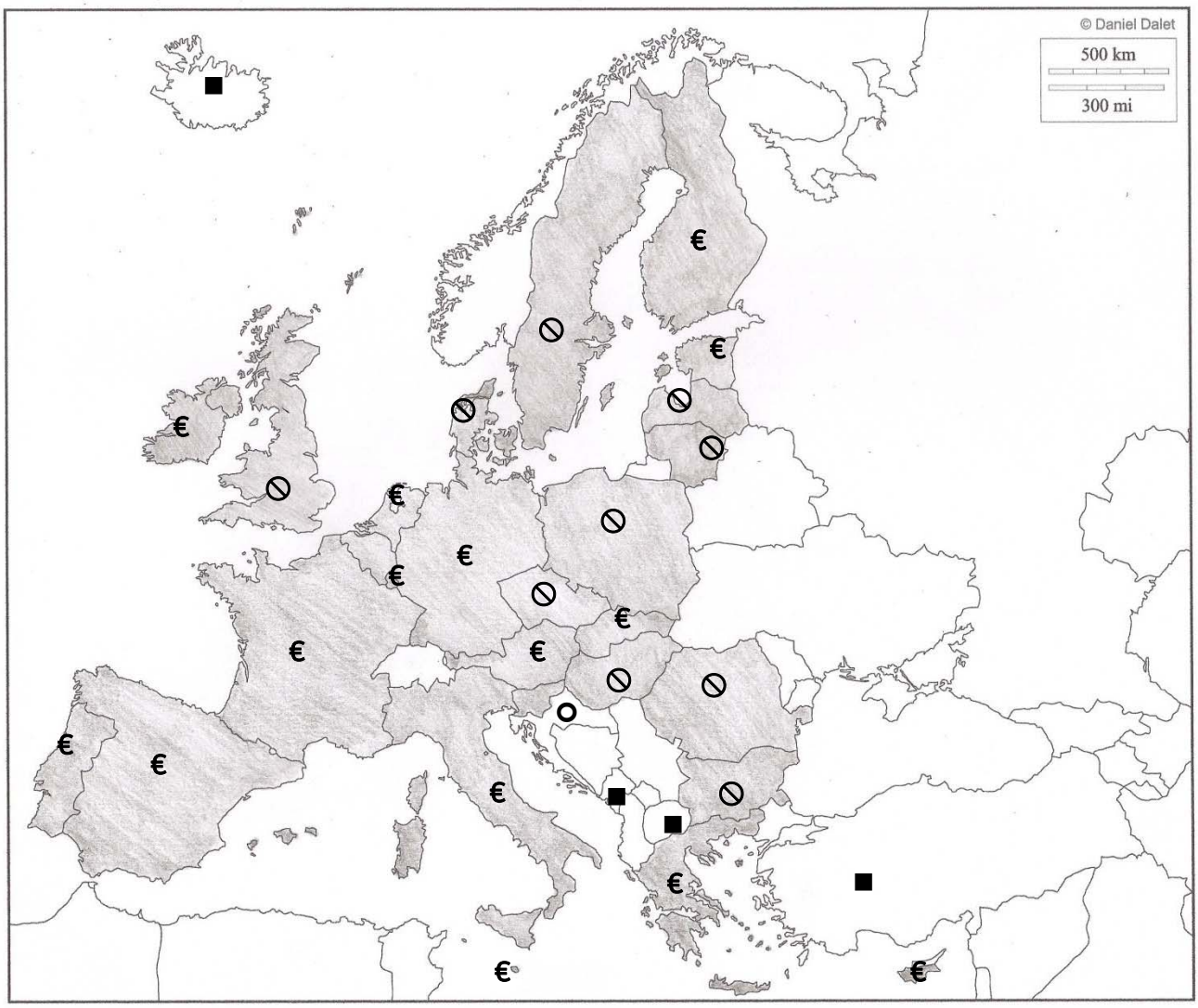

Réalisé d'après le site *www.touteleurope.eu*

1. L'Union européenne

Etat membre de l'Union

O Etat dont l'entrée dans l'Union est prévue en 2013

■ Etat candidat pour entrer dans l'Union

2. L'Europe monétaire

€ Etat appartenant à la zone Euro

⊘ Etat n'appartenant pas à la zone Euro

QUESTIONS - 8 POINTS

DOCUMENT 1 (3 points)

1. L'Union européenne est une grande puissance économique et commerciale. Justifiez cette affirmation.

DOCUMENTS 1 et 2 (3 points)

2. Dans quel secteur économique l'Union européenne est-elle performante ? Justifiez votre réponse.

DOCUMENT 3 (2 points)

3. Peut-on dire que l'Union européenne est attractive ? Justifiez votre réponse.

PARAGRAPHE ARGUMENTE - 10 POINTS

A partir des informations tirées des documents et de vos connaissances personnelles, rédigez un paragraphe argumenté d'une vingtaine de lignes dans lequel vous présenterez la puissance économique et commerciale de l'Union européenne.

<u>DEUXIEME PARTIE</u> : EDUCATION CIVIQUE (12 POINTS)

SUJET : **LA PLACE DU PRESIDENT DE LA REPUBLIQUE ET SES POUVOIRS.**

Document 1 - Extrait de la Constitution de la Vème République

Article 5. – Le Président de la République veille au respect de la Constitution. Il assure, par son arbitrage, le fonctionnement régulier des pouvoirs publics ainsi que la continuité de l'Etat. Il est le garant de l'indépendance nationale, de l'intégrité du territoire et du respect des traités.
Article 6. – Le Président de la République est élu pour cinq ans au suffrage universel direct. […]
Article 9. – Le Président de la République préside le conseil des ministres.
Article 10. – Le Président de la République promulgue les lois (…). Il peut (…) demander au Parlement une nouvelle délibération de la loi ou de certains de ses articles. Cette nouvelle délibération ne peut être refusée.
Article 15. – Le Président de la République est le chef des armées. […]
Article 16. – Lorsque les institutions de la République, l'indépendance de la Nation, l'intégrité de son territoire ou l'exécution de ses engagements internationaux sont menacés d'une manière grave et immédiate (…), le Président de la République prend les mesures exigées par ces circonstances après consultation officielle du Premier ministre, des présidents des assemblées ainsi que du Conseil constitutionnel. […]

Document 2 - L'organisation des pouvoirs de la Ve République

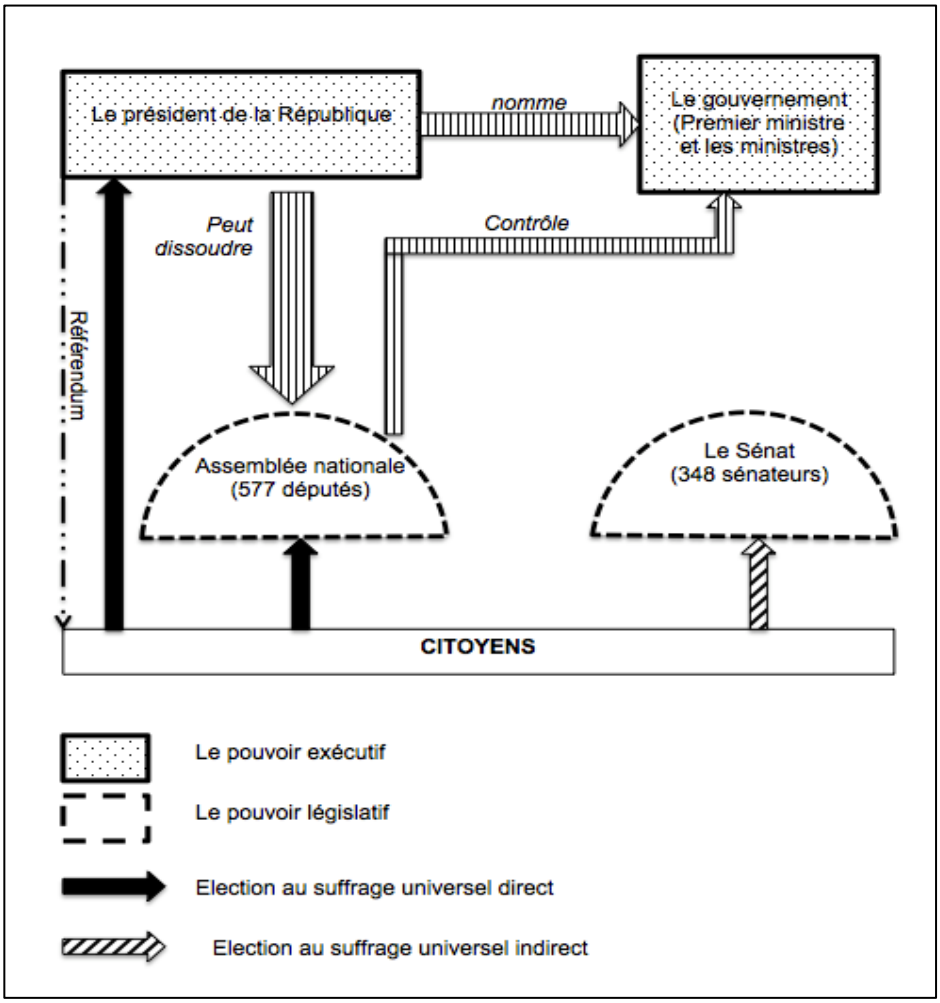

Document 3 - Le président de la République en déplacement à la base de Tora en Afghanistan, le 12 juillet 2011.

www.elysee.fr

QUESTIONS - 4 POINTS

Document 1 (1 point) :

1. Quel article montre que le président est le premier personnage de l'Etat ?

Document 2 (2 points)

2. Avec qui le président de la République partage t-il le pouvoir exécutif ?

3. Quelle action peut-il exercer sur l'Assemblée nationale ?

Documents 1 et 3 (1 point)

4. Quel rôle du président de la République, indiqué par le document 1, est illustré par le document 3 ?

PARAGRAPHE ARGUMENTE - 8 POINTS

En vous appuyant sur les éléments fournis par les documents et sur vos connaissances personnelles, rédigez un paragraphe argumenté d'une quinzaine de lignes sur la place du président de la République et ses pouvoirs.

A RENDRE AVEC LA COPIE D'EXAMEN

TROISIEME PARTIE - REPERES CHRONOLOGIQUES ET SPATIAUX (6 POINTS)

1- HISTOIRE (3 Points)

Complétez le tableau suivant en indiquant l'année correspondante aux faits historiques.

Faits historiques	Année
L'Hégire	
Déclaration des Droits de l'Homme et du citoyen	
Droit de vote des femmes en France	

2- GEOGRAPHIE (3 points)

Complétez le tableau : à quel océan ou Etat correspondent les numéros ?

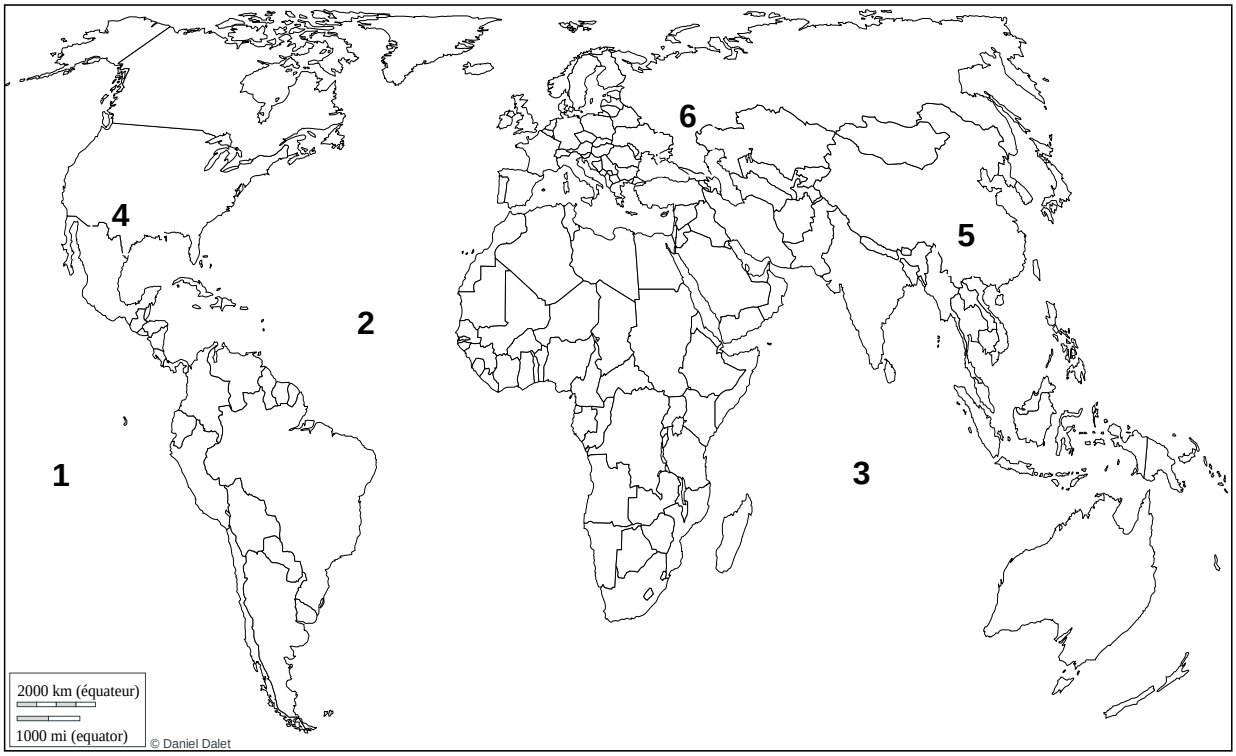

1.	4.
2.	5.
3.	6.