GDM 92 Groupe Départemental Mathématiques 92

EPREUVE 2
CE1

RALLYE MATH 92
2ème Édition
2015-2016

Énigme 1 : LES MAISONS — 10 Points

Colorie les maisons en t'aidant des indices.

La maison rouge est plus grande que la maison bleue.
La maison rouge n'est pas la plus grande.
La maison verte n'est pas la plus petite.

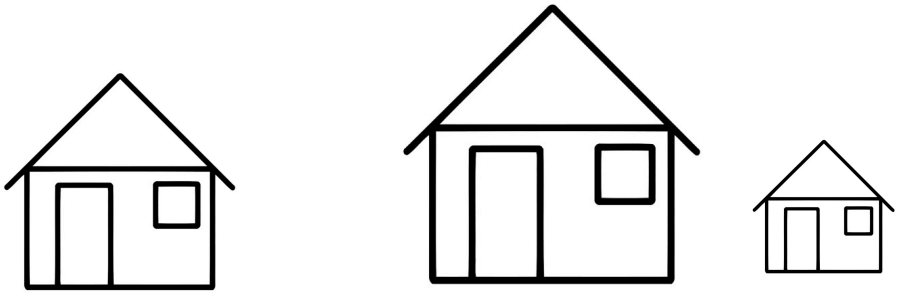

Énigme 2 : LA SALADE DE PETIT GRIS — 15 Points

Quel jour Petit Gris pourra-t-il manger la salade ?

L'histoire commence lundi.



Quand il pleut, Petit Gris l'escargot avance de 2 mètres vers la salade.
Quand il fait soleil, il recule d'1 mètre.

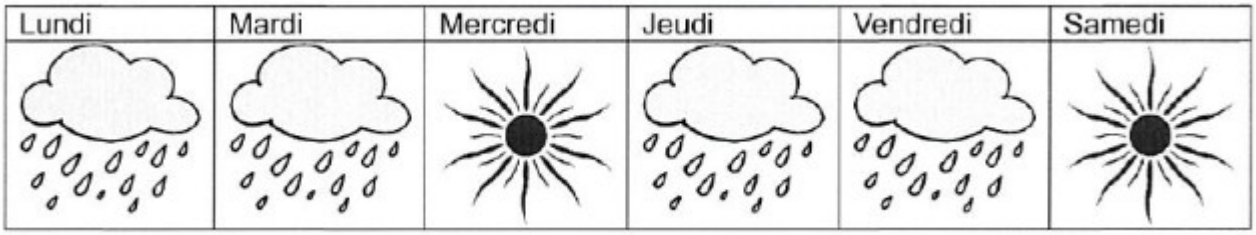

Énigme 3 : CHAUSSETTES **20 Points**

Combien de chaussettes devez-vous prendre <u>au minimum</u> pour être certains d'avoir 2 chaussettes de la même couleur ?

10 chaussettes vertes, 8 chaussettes rouges, 6 chaussettes blanches sont mélangées dans un tiroir.

Il fait noir dans la pièce !!!...

Énigme 4: LE DEJEUNER DES GRENOUILLES **25 Points**

Combien y avait-il de mouches avant l'arrivée des grenouilles ?

6 grenouilles arrivent à la mare et mangent chacune 3 mouches.

Il reste alors 7 mouches.

Énigme 5 : MOUTONS ET LOUPS **30 Points**

Séparez les loups des moutons en traçant deux lignes droites.

<u>Aide</u> : Cela doit former 4 terrains.

Annexes à disposition si besoin